Identifica i Gruppi di 100

Nome:

Usa i gruppi per rispondere ad ogni domanda.

1) a. Quanti gruppi da 100 ci sono?
b.Quanti blocchi piccoli ci sono in tutto?

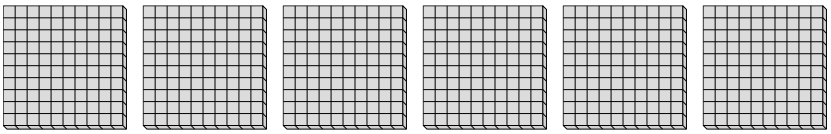

2) a. Quanti gruppi da 100 ci sono?
b.Quanti blocchi piccoli ci sono in tutto?



3) a. Quanti gruppi da 100 ci sono?
b.Quanti blocchi piccoli ci sono in tutto?



4) a. Quanti gruppi da 100 ci sono?
b.Quanti blocchi piccoli ci sono in tutto?

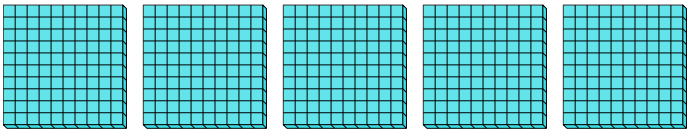

5) a. Quanti gruppi da 100 ci sono?
b.Quanti blocchi piccoli ci sono in tutto?

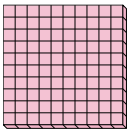

6) a. Quanti gruppi da 100 ci sono?
b.Quanti blocchi piccoli ci sono in tutto?

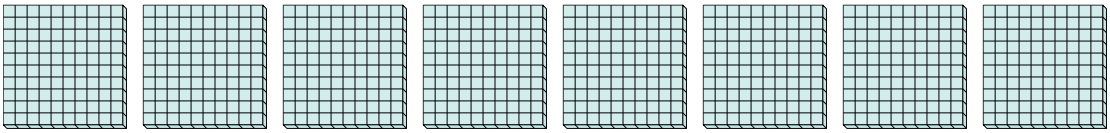

7) a. Quanti gruppi da 100 ci sono?
b.Quanti blocchi piccoli ci sono in tutto?

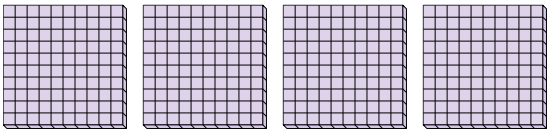

Risposte

1. ____ ____
2. ____ ____
3. ____ ____
4. ____ ____
5. ____ ____
6. ____ ____
7. ____ ____

1-7	86	71	57	43	29	14	0

Identifica i Gruppi di 100 Nome: **Soluzioni**

Usa i gruppi per rispondere ad ogni domanda.

1) a. Quanti gruppi da 100 ci sono?
b.Quanti blocchi piccoli ci sono in tutto?

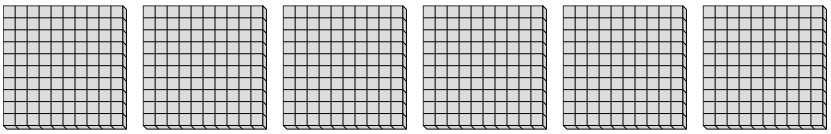

2) a. Quanti gruppi da 100 ci sono?
b.Quanti blocchi piccoli ci sono in tutto?



3) a. Quanti gruppi da 100 ci sono?
b.Quanti blocchi piccoli ci sono in tutto?



4) a. Quanti gruppi da 100 ci sono?
b.Quanti blocchi piccoli ci sono in tutto?

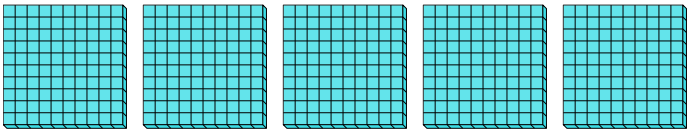

5) a. Quanti gruppi da 100 ci sono?
b.Quanti blocchi piccoli ci sono in tutto?

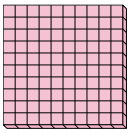

6) a. Quanti gruppi da 100 ci sono?
b.Quanti blocchi piccoli ci sono in tutto?

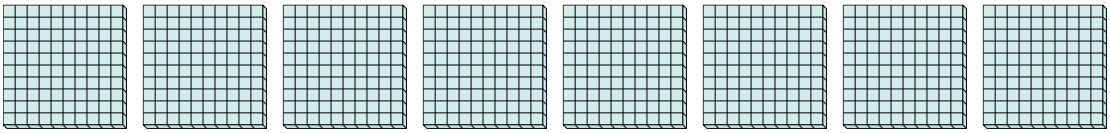

7) a. Quanti gruppi da 100 ci sono?
b.Quanti blocchi piccoli ci sono in tutto?

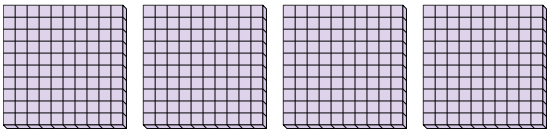

Risposte

1. **6** **600**
2. **9** **900**
3. **3** **300**
4. **5** **500**
5. **1** **100**
6. **8** **800**
7. **4** **400**

1-7	86	71	57	43	29	14	0