Determinazione della probabilità del filatore Nome:

Risolvi ogni problema.

1) Su quali due numeri c'è la stessa probabilità che l'indicatore si fermi?

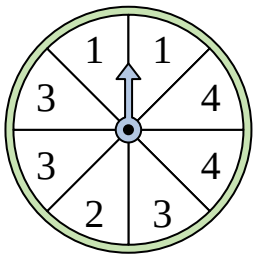

2) Su quale lettera è meno probabile che si fermerà l'indicatore?

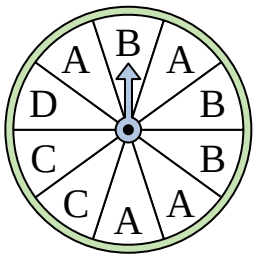

3) Su quali due lettere c'è la stessa probabilità che l'indicatore si fermi?

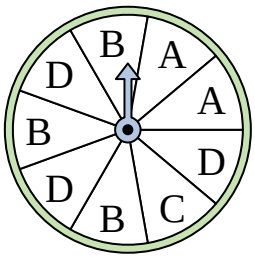

4) Su quale lettera è meno probabile che si fermerà l'indicatore?

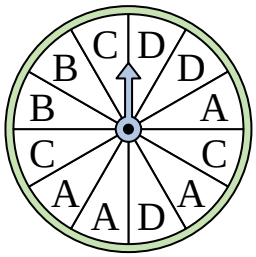

5) Su quale numero è meno probabile che si fermerà l'indicatore?



6) Su quale lettera è più probabile che si fermerà l'indicatore?

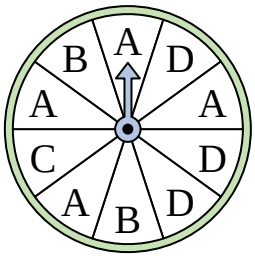

7) Su quale numero è meno probabile che si fermerà l'indicatore?



8) Su quale lettera è più probabile che si fermerà l'indicatore?

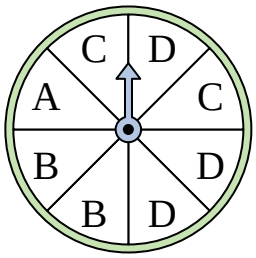

9) Su quale lettera è meno probabile che si fermerà l'indicatore?

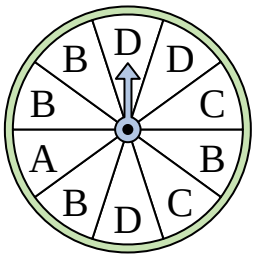

10) Su quale lettera è meno probabile che si fermerà l'indicatore?

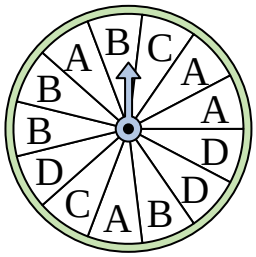

11) Su quali due numeri c'è la stessa probabilità che l'indicatore si fermi?



12) Su quale lettera è più probabile che si fermerà l'indicatore?

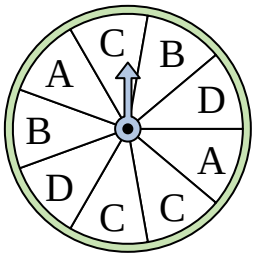

Risposte

1. _____
2. _____
3. _____
4. _____
5. _____
6. _____
7. _____
8. _____
9. _____
10. _____
11. _____
12. _____

1-10	92	83	75	67	58	50	42	33	25	17
11-12	8	0								

Determinazione della probabilità del filatore Nome: **Soluzioni**

Risolvi ogni problema.

1) Su quali due numeri c'è la stessa probabilità che l'indicatore si fermi?

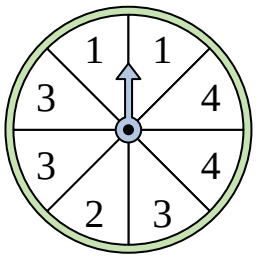

2) Su quale lettera è meno probabile che si fermerà l'indicatore?

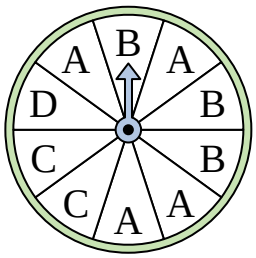

3) Su quali due lettere c'è la stessa probabilità che l'indicatore si fermi?

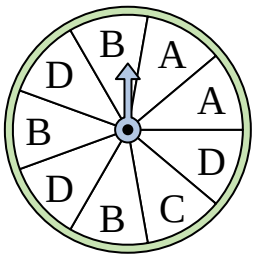

4) Su quale lettera è meno probabile che si fermerà l'indicatore?

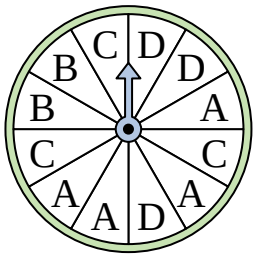

5) Su quale numero è meno probabile che si fermerà l'indicatore?



6) Su quale lettera è più probabile che si fermerà l'indicatore?

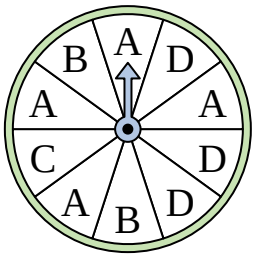

7) Su quale numero è meno probabile che si fermerà l'indicatore?



8) Su quale lettera è più probabile che si fermerà l'indicatore?

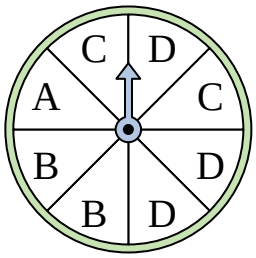

9) Su quale lettera è meno probabile che si fermerà l'indicatore?

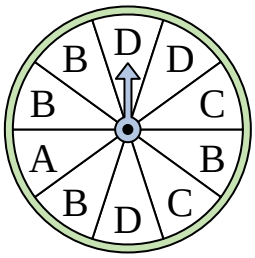

10) Su quale lettera è meno probabile che si fermerà l'indicatore?

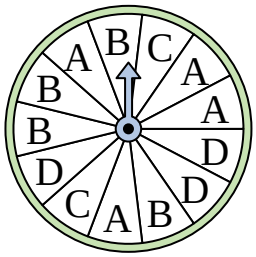

11) Su quali due numeri c'è la stessa probabilità che l'indicatore si fermi?



12) Su quale lettera è più probabile che si fermerà l'indicatore?

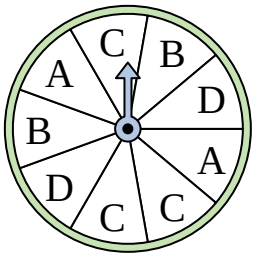

Risposte

1. 1 & 4
2. D
3. B & D
4. B
5. 4
6. A
7. 1
8. D
9. A
10. C
11. 2 & 3
12. C

1-10	92	83	75	67	58	50	42	33	25	17
11-12	8	0								