Trovare l'ora di inizio con una linea numerica Nome:

Risolvi ogni problema.

1) Inizio: _____
Elapsed: 1 ora e 45 minuti
Fine: 3:45

2) Inizio: _____
Elapsed: 2 ore e 45 minuti
Fine: 2:20

3) Inizio: _____
Elapsed: 1 ora e 10 minuti
Fine: 10:10

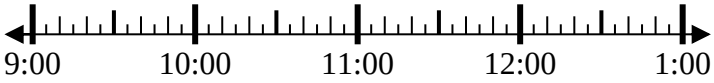

4) Inizio: _____
Elapsed: 1 ora e 20 minuti
Fine: 1:05

5) Inizio: _____
Elapsed: 1 ora e 15 minuti
Fine: 1:35

6) Inizio: _____
Elapsed: 1 ora e 10 minuti
Fine: 6:35

7) Inizio: _____
Elapsed: 1 ora e 45 minuti
Fine: 4:20

8) Inizio: _____
Elapsed: 2 ore e 45 minuti
Fine: 12:20

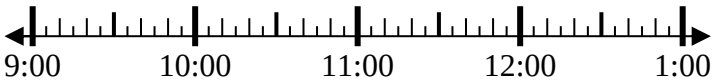

Risposte

1. _____
2. _____
3. _____
4. _____
5. _____
6. _____
7. _____
8. _____

1-8	88	75	63	50	38	25	13	0

Trovare l'ora di inizio con una linea numerica

Nome: **Soluzioni**

Risolvi ogni problema.

1) Inizio: 2:00
Elapsed: 1 ora e 45 minuti
Fine: 3:45

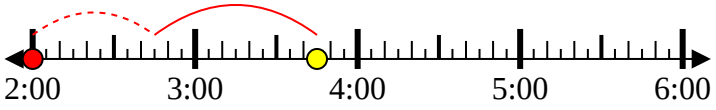

2) Inizio: 11:35
Elapsed: 2 ore e 45 minuti
Fine: 2:20

3) Inizio: 9:00
Elapsed: 1 ora e 10 minuti
Fine: 10:10

4) Inizio: 11:45
Elapsed: 1 ora e 20 minuti
Fine: 1:05

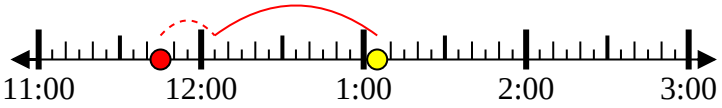

5) Inizio: 12:20
Elapsed: 1 ora e 15 minuti
Fine: 1:35

6) Inizio: 5:25
Elapsed: 1 ora e 10 minuti
Fine: 6:35

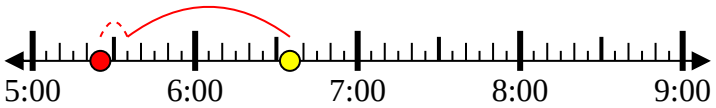

7) Inizio: 2:35
Elapsed: 1 ora e 45 minuti
Fine: 4:20

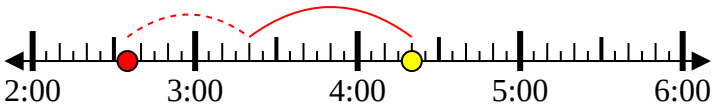

8) Inizio: 9:35
Elapsed: 2 ore e 45 minuti
Fine: 12:20

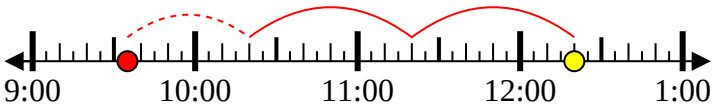

Risposte

1. **2:00**
2. **11:35**
3. **9:00**
4. **11:45**
5. **12:20**
6. **5:25**
7. **2:35**
8. **9:35**

1-8	88	75	63	50	38	25	13	0