Risolvi ogni problema.

1) Il rettangolo sottostante ha dimensioni 1×10. Crea un rettangolo con la stessa area, ma con un perimetro diverso.

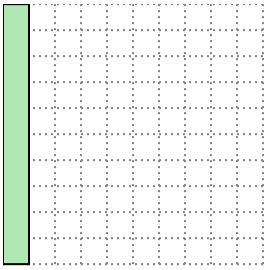



2) Il rettangolo sottostante ha dimensioni 2×4. Crea un rettangolo con la stessa area, ma con un perimetro diverso.

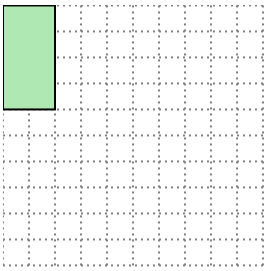



3) Il rettangolo sottostante ha dimensioni 2×3. Crea un rettangolo con la stessa area, ma con un perimetro diverso.

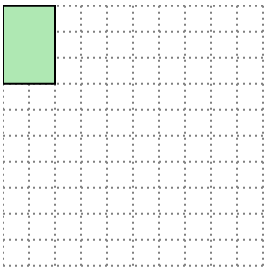



4) Il rettangolo sottostante ha dimensioni 5×8. Crea un rettangolo con la stessa area, ma con un perimetro diverso.

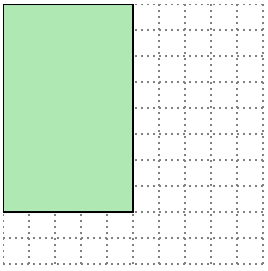



5) Il rettangolo sottostante ha dimensioni 3×6. Crea un rettangolo con la stessa area, ma con un perimetro diverso.

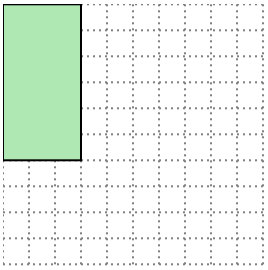



Risposte

1. _____
2. _____
3. _____
4. _____
5. _____

1-5	80	60	40	20	0

Risolvi ogni problema.

1) Il rettangolo sottostante ha dimensioni 1×10. Crea un rettangolo con la stessa area, ma con un perimetro diverso.

2×5

2) Il rettangolo sottostante ha dimensioni 2×4. Crea un rettangolo con la stessa area, ma con un perimetro diverso.

1×8

3) Il rettangolo sottostante ha dimensioni 2×3. Crea un rettangolo con la stessa area, ma con un perimetro diverso.

1×6

4) Il rettangolo sottostante ha dimensioni 5×8. Crea un rettangolo con la stessa area, ma con un perimetro diverso.



4×10

5) Il rettangolo sottostante ha dimensioni 3×6. Crea un rettangolo con la stessa area, ma con un perimetro diverso.

2×9

Risposte

1. **2×5**
2. **1×8**
3. **1×6**
4. **4×10**
5. **2×9**

1-5	80	60	40	20	0